ÔN TẬP VỀ HÌNH HỌC

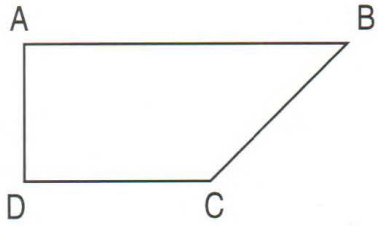

1 Quan sát hình bên, hãy chỉ ra :

a) Các cạnh song song với nhau ;

b) Các cạnh vuông góc với nhau.

2 Hãy vẽ một hình vuông có cạnh dài 3cm. Tính chu vi và diện tích hình vuông đó.

3 Đúng ghi Đ, sai ghi S :

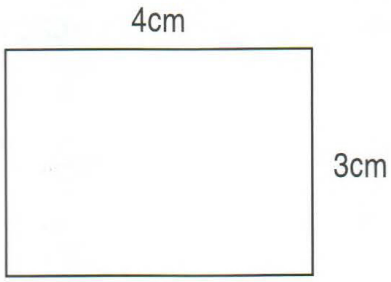

Hình 1



Hình 2

a) Chu vi hình 1 bằng chu vi hình 2. ☐

b) Diện tích hình 1 bằng diện tích hình 2. ☐

c) Diện tích hình 2 lớn hơn diện tích hình 1. ☐

d) Chu vi hình 1 lớn hơn chu vi hình 2. ☐

4 Để lát nền một phòng học hình chữ nhật, người ta dùng loại gạch men hình vuông có cạnh 20cm. Hỏi cần bao nhiêu viên gạch để lát kín nền phòng học đó, biết rằng nền phòng học có chiều rộng 5m, chiều dài 8m và phần mạch vữa không đáng kể ?